Vous venez d'être nommé directeur (ou directrice) d'un grand hôtel. Cet hôtel est composé de trois bâtiments, dont on vous donne une vue globale.

Vous devez nommer chaque chambre sur les vues « de dessus » de chacun des trois bâtiments.

Le nom donné à chaque chambre de l'hôtel devra permettre à chaque client de trouver sa chambre rapidement, sans qu'il soit nécessaire de donner de longues explications.

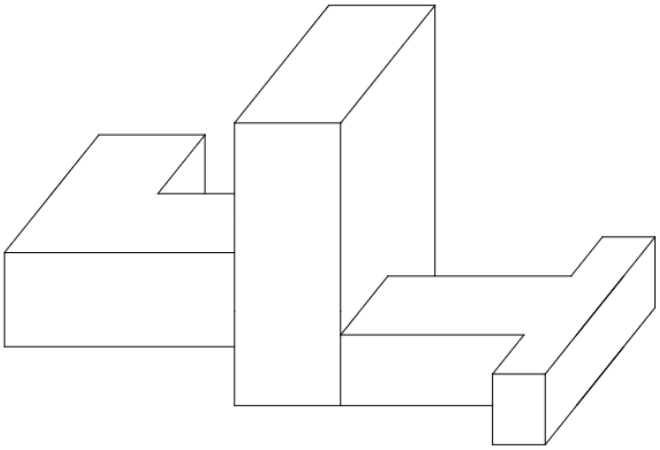

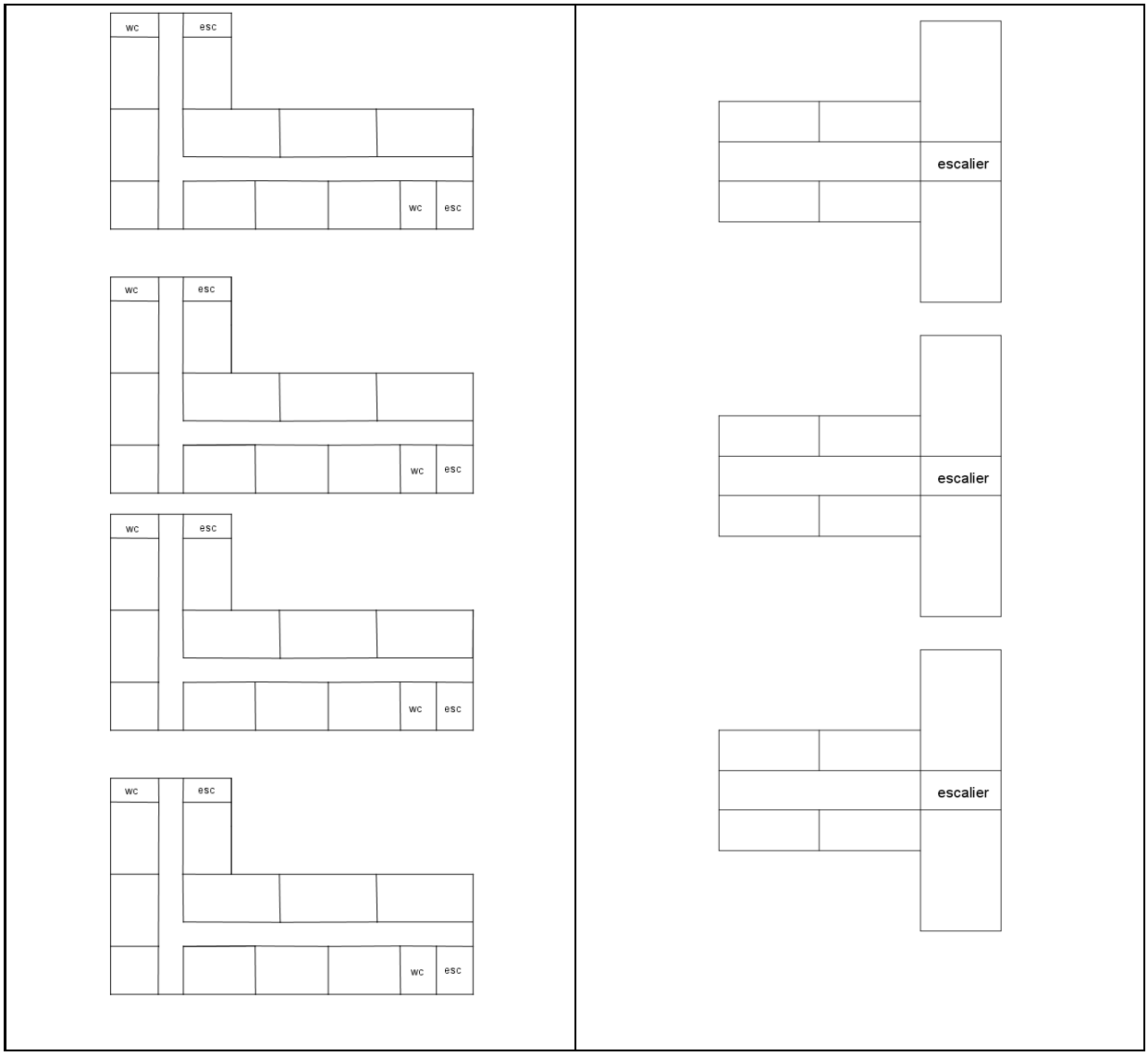


toilettes
escalier
toilettes
escalier
toilettes
escalier
toilettes
escalier
toilettes
escalier
toilettes
escalier
toilettes
escalier
local
escalier
toilettes
escalier
local
escalier
toilettes
escalier